Fünf Makroinvertebraten

Name: _____

Datum: _____

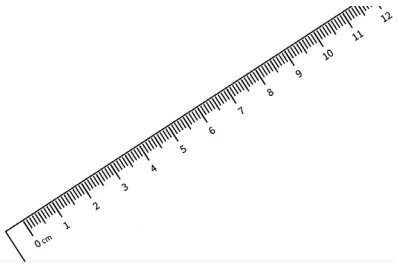

1. Höre der Beschreibung des Makroinvertebrats zu. Schreibe die passende Nummer unter das Bild des Makroinvertebraten.
2. Nimm dein Lineal und zeichne ein, wie gross der Makroinvertebrat wird.

Abbildung 1: Napfschnecke. © Verena Lubini

Grösse:

Abbildung 2: Köcherfliegenlarve. © Verena Lubini

Grösse:

Abbildung 3: Steinfliegenlarve. © Verena Lubini

Grösse:

Abbildung 4: Kriebelmückenlarve. © Verena Lubini



Abbildung 5: Kopf der Kriebelmückenlarve. © Silvana Käser / EAWAG

Grösse:

Abbildung 6: Schlammröhrenwurm. © Verena Lubini

Grösse:

Abbildung 7: Köcherfliegenlarve. © Verena Lubini

Grösse:

Abbildung 8: Steinfliegenlarve. © Verena Lubini

Grösse:

3. Besprich mit deinem Nachbarn*deiner Nachbarin, was für besondere Merkmale die beschriebenen Tiere haben. Woran würdest du sie im Wasser erkennen?

Zeigerart	Meine Beschreibung / Merkmale
Steinfliegenlarve 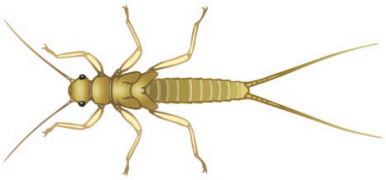	
Köcherfliegenlarve mit Köcher	
Napfschnecke	
Kriebelmückenlarve 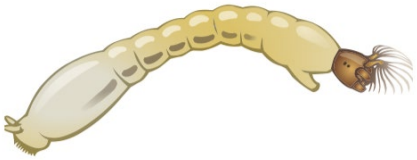	
Schlammröhrenwurm (Tubifex) 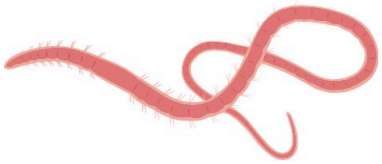	

Illustrationen: © Pro Natura (2019): Hinaus ans Wasser. Ein Unterrichtsprojekt zur Bioindikation.